屏東縣立東港高級中學國中部 115 學年度

藝術才能音樂班

新生入學考 聽寫試卷［請在答案卷作答］

一、單音題：請選出正確的音高，開始前給標準音 A，請在括弧內打 v，一題彈三遍，撥放一次，共計 10 分。



(　　) (　　) (　　) (　　)(　　) (　　) (　　) (　　) (　　)(　　)



(　　) (　　) (　　)(　　) (　　)(　　) (　　) (　　) (　　)(　　)

二、音程題：包含二小題，共 10 分。

1. 【題組一】：圈出播放中完整的音程度數，撥放三遍，5%。

1.	2.	3.	4.	5.
三度　　五度	八度　　四度	二度　　六度	四度　　二度	三度　　六度

2. 【題組二】：圈出播放中完整的音程名稱，撥放三遍，5%。

1.	2.	3.	4.	5.
小三度 大七度	小七度 大二度	小二度 完全八度	大三度 大七度	完全五度 小二度

三、節奏題：共 30 分

1. 【題組一】：請選出下列播放的節奏型，每題撥放三遍，15%。

(　　) 01. (A)  (B)  (C) 

(　　) 02. (A)  (B)  (C) 

(　　) 03. (A)  (B) 

(C) 

(　　) 04. (A)  (B)  (C) 

(　　) 05. (A)  (B)  (C) 

2. 【題組二】：請寫出空白處未完成的節奏部分，每題撥放四遍，15%。



四、旋律題：共 30 分。

【題組一】：請選出下列播放的旋律，每題撥放三遍，15%

(　　) 01. (A)  (B)  (C) 

(　　) 02. (A)  (B)  (C) 

.

(　　) 03. (A)  (B) 

(C)



(　　) 04. (A)



(B)



(　　) 05. (A)



(B)



(C)



【題組二】：請寫出空白處未完成的旋律部分，每題撥放四遍，共 15 分。

a. 一拍 1 分， 4 分。

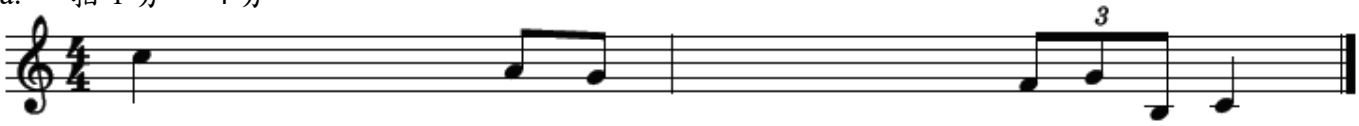

b. 一大拍 2 分， 6 分。

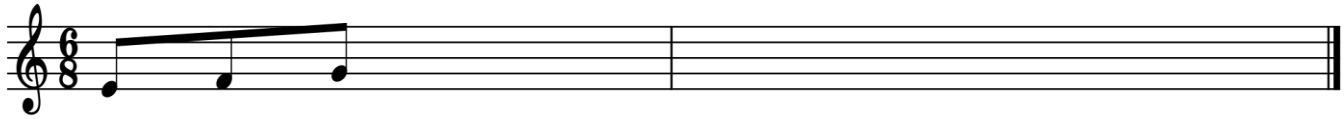

c. 一拍 1 分， 5 分。

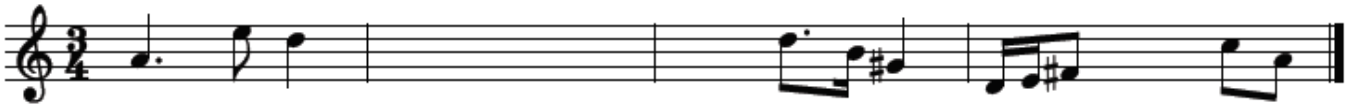

五、音樂風格辨識：每題撥放一次，共 20 分。

(　　) 01.請問下列旋律由哪個樂器演奏？(A) 鋼琴 (B)大提琴 (C) 管風琴 (D)小提琴。

(　　) 02.請問這段旋律有可能是哪一個地區的民謠？(A) 宜蘭羅東 (B) 屏東恆春 (C) 台南安平 (D)嘉南平原。

(　　) 03.請問這段旋律是屬於何種編制的作品？(A) 交響曲 (B) 鋼琴曲 (C) 銅管五重奏 (D)混聲四部合唱。

(　　) 04.請問這段旋律是屬於何種編制的作品？(A) 交響曲 (B) 鋼琴曲 (C) 銅管五重奏 (D) 混聲四部合唱。

(　　) 05.請問這段主要旋律是屬於國樂團裡的那項樂器？(A) 胡琴 (B) 笛子 (C) 琵琶 (D) 笙。

(　　) 06.請問這段主要旋律是屬於國樂團裡的那項樂器？(A) 揚琴 (B) 嗩吶 (C) 琵琶 (D) 笙。

(　　) 07.請問這段主要旋律是屬於國樂團裡的那項樂器？(A) 二胡 (B) 笛子 (C) 琵琶 (D) 笙。

(　　) 08.請問這段旋律是屬於何種編制的作品？(A) 鋼琴協奏曲 (B) 木管五重奏 (C) 銅管五重奏 (D) 弦樂四重奏。

(　　) 09.請問這段旋律是屬於何種編制的作品？(A) 交響曲 (B) 藝術歌曲 (C) 歌劇 (D) 弦樂四重奏。

(　　) 10.請問這段旋律有一項樂器持續重複下列的節奏，請問是哪一種樂器呢？(A) 雙簧管 (B) 小提琴 (C) 小鼓 (D) 單簧管。

